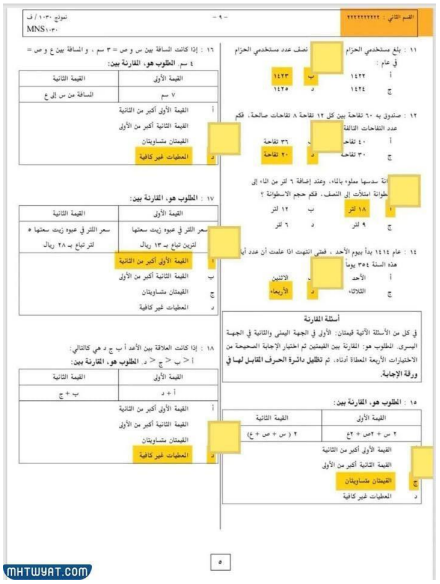

القسم الثاني : ٢٢٢٢٢٢٢٢٢٢ — ٩ — نموذج ١٠٣٠ / ف MNS١٠٣٠

١١ : يبلغ مستخدمي الحرام في عام :
أ ١٤٢٢ ب ١٤٢٣ ج ١٤٢٤ د ١٤٢٥

١٢ : صندوق به ٢٠ تفاحة بين كل ١٢ تفاحة ٨ تفاحات صالحة، فكم عدد التفاحات التالفة ؟
أ ٤٠ تفاحة ب ٣٦ تفاحة ج ٣٠ تفاحة د ٢٠ تفاحة

١٣ : أنبوب سدسها مملوء بالماء، وعند إضافة ٦ لتر من الماء إلى الأنبوب امتلأ إلى النصف، فكم حجم الاسطوانة ؟
أ ١٨ لتر ب ١٢ لتر ج ٩ لتر د ٦ لتر

١٤ : عام ١٤٤٥ بدأ يوم الأحد ، فعلى أي اليوم اذا علمت أن عدد أيام هذه السنة ٣٥٤ يوما
أ الأحد ب الاثنين ج الثلاثاء د الأربعاء

أسئلة المقارنة

في كل من الأسئلة الآتية فبيلان، الأول في الجهة اليمنى والثانية في الجهة اليسرى. المطلوب هو: المقارنة بين القيمتين ثم اختيار الإجابة الصحيحة من الاختيارات الأربعة المعدة أدناه، ثم **تظليل دائرة الحرف المقابل لها في ورقة الإجابة.**

١٥ : **المطلوب هو، المقارنة بين:**

القيمة الأولى	القيمة الثانية
٢ س + ٣ص + ٤ع	٢ (س + ص + ع)

أ القيمة الأولى أكبر من الثانية
ب القيمة الثانية أكبر من الأولى
ج القيمتان متساويتان
د المعطيات غير كافية

١٦ : إذا كانت المسافة بين س و ص = ٣ سم ، و المسافة بين ع و ص = ٤ سم. **المطلوب هو: المقارنة بين:**

القيمة الأولى	القيمة الثانية
المسافة من س إلى ع	٧ سم

أ القيمة الأولى أكبر من الثانية
ب القيمة الثانية أكبر من الأولى
ج القيمتان متساويتان
د المعطيات غير كافية

١٧ : **المطلوب هو: المقارنة بين:**

القيمة الأولى	القيمة الثانية
سعر اللتر في عبوة زيت سعتها ٥ لترين تباع بـ ١٣ ريال	سعر اللتر في عبوة زيت سعتها ٥ لتر تباع بـ ٢٨ ريال

أ القيمة الأولى أكبر من الثانية
ب القيمة الثانية أكبر من الأولى
ج القيمتان متساويتان
د المعطيات غير كافية

١٨ : إذا كانت العلاقة بين الأعداد أ ب ج د كالتالي: أ < ب = ج < د . **المطلوب هو ، المقارنة بين:**

القيمة الأولى	القيمة الثانية
أ + د	ب + ج

أ القيمة الأولى أكبر من الثانية
ب القيمة الثانية أكبر من الأولى
ج القيمتان متساويتان
د المعطيات غير كافية

٥

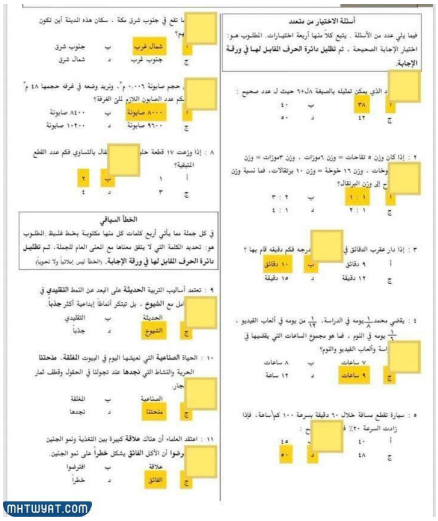

نا تقع في جنوب شرق مكة ، سكان هذه المدينة أين تكون هم؟
أ شمال غرب ب جنوب شرق ج جنوب غرب د شمال شرق

حجم صابونة ٠,٠٠٠٦ م³، وتريد وضعه في غرفة حجمها ٢٨ م³ كم عدد الصابون اللازم لملئ الغرفة؟
أ ٩٠٠٠ صابونة ب ٨٤٠٠٠ صابونة ج ٩٦٠٠ صابونة د ١٠٢٠٠ صابونة

٨ : إذا وزعت ١٧ قطعة حلـ[illegible] بالتساوي فكم عدد القطع التي[illegible]؟
أ ١ ب ٢ ج ٣ د ٤

الخط السباقي

في كل جملة مما يأتي أربع كلمات، كل منها مكتوبة بخط مختلف. المطلوب هو تحديد الكلمة التي لا يتفق معناها مع المعنى العام للجملة. ثم **تظليل دائرة الحرف المقابل لها في ورقة الإجابة.** (الخط ليس بحاسماً ولا تحريره)

٩ : تعتمد أساليب التربية الحديثة على البعد عن النمط **التقليدي** في التعامل مع **الطفوح** ، بل تبتكر أساليب إبداعية أكثر جذباً
أ الحديثة ب التقليدي ج الطفوح د جذباً

١٠ : الحياة **الصناعية** التي نعيشها اليوم في أبهيات **المقلقة**. ملاحظتا الحياة والنشاط التي نجدها عند تجولنا في الحقول وقطف ثمار [illegible]
أ الصناعية ب المقلقة ج ملاحظتا د نجدها

١١ : اعتقد العلماء، أن هناك **علاقة** كبيرة بين التغذية ونمو الجنين. [illegible] أن الأكل **الفائق** يشكل **خطراً** على نمو الجنين.
أ علاقة ب افترضوا ج الفائق د خطراً

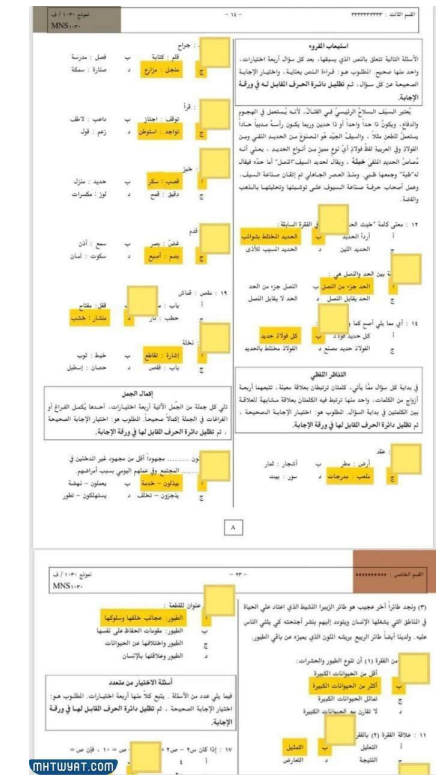

القسم الثالث : ٣٣٣٣٣٣٣٣٣٣ — ١٤ — نموذج ١٠٣٠ / ف MNS١٠٣٠

استيعاب المقروء

الأسئلة التالية تتعلق بالنص الذي يسبقها. بعد كل سؤال أربعة اختيارات. واحد منها صحيح. المطلوب هو : قراءة النص بعناية ، واختيار الإجابة الصحيحة من كل سؤال. ثم **تظليل دائرة الحرف المقابل له في ورقة الإجابة.**

يختار السيف السلاح الرئيسي في القتال. لأنه يستعمل في الهجوم والدفاع. ويكون لا حداً واحداً أو لا حدين وربما يكون رأساً مدبباً حاداً يستعمل للطعن مثلاً . والسيف الجيد هو المصنوع من الحديد الفني وبين الفولاذ وفي العربية فقط فولاذ أي نوع مميز من أنواع الحديد ، يعني أنه تماماً من الحديد الفني **جيدة** . ويطلق لحديد السيف "الصلب" أما حدة فيقال له "ذكية" وجمعها هندي. وبعد العصر الجاهلي تم إتقان صناعة السيف. وفعل أصحاب حرفة صناعة السيوف على توشيتها وتحليتها بالذهب والفضة.

١٢ : معنى كلمة "حديث الحـ[illegible]" في الفقرة السابقة :
أ أرضا الحديد ب الحديد المخلط بالنوابي
ج الحديد اللين د الحديد المسبب للأذى

١٣ : [illegible] بين الحد والنصل هي :
أ الحد جزء من النصل ب النصل جزء من الحد
ج الحد يقابل النصل د الحد لا يقابل النصل

١٤ : أي مما يلي أصح كما [illegible] :
أ كل حديد فولاذ ب كل فولاذ حديد
ج الفولاذ حديد مصنع د الفولاذ مختلط بالحديد

التناظر اللفظي

في بداية كل سؤال مما يأتي، كلمتان ترتبطان بعلاقة معينة. تليهما أربعة أزواج من الكلمات. واحد منها ترتبط فيه الكلمتان بعلاقة مماثلة لعلاقة بين الكلمتين في بداية السؤال. المطلوب هو : اختيار الإجابة الصحيحة . ثم **تظليل دائرة الحرف المقابل لها في ورقة الإجابة.**

عقد :
أ أرض : مطر ب أشجار : ثمار
ج مكتب : مدرسة د سور : بيت

جراح :
أ ألم : كتابة ب فصل : مدرسة
ج منجل : مزارع د صيادة : سمكة

قرأ :
أ توقف : اختبار ب ناهب : لا تلطف
ج تواعد : استوطن د زعم : قول

خيط :
أ قصب : سكر ب حديد : منزل
ج دقيق : قمح د لون : مكسرات

قدم :
أ فحص : بصر ب سمع : أذن
ج يشم : أصبع د سكوت : لسان

١٩ : ملص : ضاق
أ باب : مفتاح ب قفل : مفتاح
ج حطب : نار د مسمار : خشب

نخلة :
أ إشارة : تقاطع ب خيط : ثوب
ج باب : قفص د حصان : إسطبل

إكمال الجمل

في كل جملة من الجمل الآتية أربعة اختيارات. أحدها يُكمل الفراغ أو الفراغات في الجملة إكمالاً صحيحاً. المطلوب هو: اختيار الإجابة الصحيحة : ثم **تظليل دائرة الحرف المقابل لها في ورقة الإجابة.**

ون ..... مجبوراً أقل من مجهود غير الدخانين في
المجتمع وفي عملهم اليومي بسبب أمراضهم.
أ يمارسون – خدمة ب يعملون – تهمة
ج يتجولون – تحقق د يستهلكون – تطور

٨

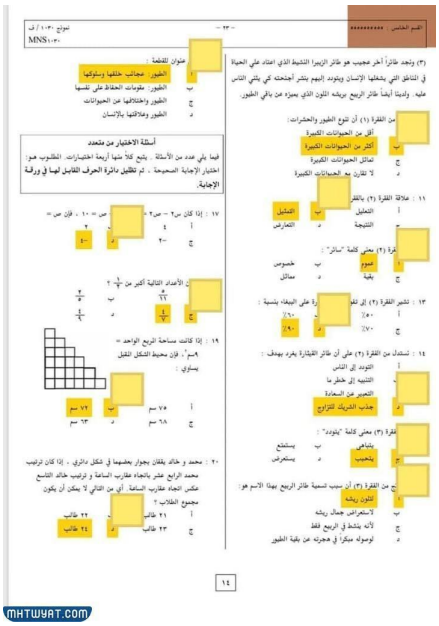

القسم الخامس : ********** — ٢٣ — نموذج ١٠٣٠ / ف MNS١٠٣٠

(٣) ونجد طائراً آخر عجيب هو طائر الزيبرا النشيط الذي اعتاد على الحياة في القطاع التي يدخلها الإنسان ويقوم إليهم بنشر أجنحته كي يتلبي الناس عليه. ولديذا أيضاً طائر الربيع بريشه اللون الذي يميزه عن باقي الطيور.

من الفقرة (١) أن نوع الطيور والحشرات:
أ أقل من الحيوانات الكبيرة
ب أكثر من الحيوانات الكبيرة
ج تماثل الحيوانات الكبيرة
د لا تقارن مع الحيوانات الكبيرة

١١ : علاقة الفقرة (٢) بالفقـ[illegible]
أ التعليل ب التمثيل
ج النتيجة د التعارض

رة (٢) معنى كلمة "سائر" :
أ عموم ب خصوص
ج بقية د معادل

١٣ : تشير الفقرة (٢) إلى نفـ[illegible]رة على البيغاء بنسبة :
أ ٤٠٪ ب ٦٠٪
ج ٧٠٪ د ٩٠٪

١٤ : تستدل من الفقرة (٢) على أن طائر الغيثارة يغرد بهدف :
أ التودد إلى الذكر
ب التنبيه إلى خطر ما
ج التعبير عن السعادة
د جذب الشريك للتزاوج

رة (٣) معنى كلمة "يتودد" :
أ يتباهى ب يستمتع
ج يتحبب د يستعرض

ج من الفقرة (٣) أن سبب تسمية طائر الربيع بهذا الاسم هو :
أ تلون ريشه
ب لاستعراض جمال ريشه
ج لأنه ينشط في الربيع فقط
د لوصوله مبكراً في هجرته عن بقية الطيور

١٧ : إذا كان س٢ – ص٢ = ٢٠ ، فإن ص =
أ ٤ ب ٢٠
ج ٢٠- د ٤٠

ن الأعداد التالية أكبر من $\frac{1}{2}$ ؟
أ $\frac{1}{4}$ ب $\frac{1}{3}$
ج $\frac{1}{2}$ د $\frac{2}{3}$

١٩ : إذا كانت مساحة المربع الواحد = ٩سم² ، فإن محيط الشكل المقابل يساوي :
أ ٦٨ سم ب ٧٢ سم
ج ٧٥ سم د ٧٣ سم

٢٠ : محمد و خالد يقفان بجوار بعضهما في شكل دائري . إذا كان ترتيب محمد الرابع عشر باتجاه عقارب الساعة و ترتيب خالد التاسع عكس اتجاه عقارب الساعة . أي من التالي لا يمكن أن يكون مجموع الطلاب ؟
أ ٢١ طالب ب ٢٢ طالب
ج ٢٣ طالب د ٢٤ طالب

١٤

القسم الخامس : ********** — ٢٣ — نموذج ١٠٣٠ / ف MNS١٠٣٠

(٣) ونجد طائراً آخر عجيب هو طائر الزيبرا النشيط الذي اعتاد على الحياة في القطاع التي يدخلها الإنسان ويقوم إليهم بنشر أجنحته كي يتلبي الناس عليه. ولديذا أيضاً طائر الربيع بريشه اللون الذي يميزه عن باقي الطيور.

من الفقرة (١) أن نوع الطيور والحشرات:
أ أقل من الحيوانات الكبيرة
ب أكثر من الحيوانات الكبيرة
ج تماثل الحيوانات الكبيرة
د لا تقارن مع الحيوانات الكبيرة

١١ : علاقة الفقرة (٢) بالفقـ[illegible]
أ التعليل ب التمثيل
ج النتيجة د التعارض

MHTWYAT.COM

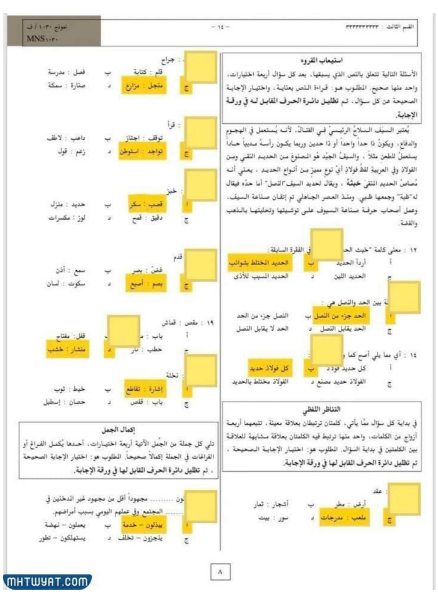

استيعاب المقروء

الأسئلة التالية تتعلق بالنص الذي يسبقها. بعد كل سؤال أربعة اختيارات، واحد منها صحيح. المطلوب هو قراءة النص بعناية، واختيار الإجابة الصحيحة عن كل سؤال. ثم تظليل دائرة الحرف المقابل له في ورقة الإجابة.

يختار السيف السلاح الرئيسي في القتال، لأنه يُستعمل في الهجوم والدفاع، ويكونُ إما حداً واحداً أو ذا حدين وربما يكون رأسة مدبباً حماداً يستعمل للطعن مثلاً . والسيف الجيد هو المصنوع من الحديد الفني ومن الفولاذ وفي العربية لفظ فولاذ أي نوع معين من أنواع الحديد ، يعني أنه تماماً من الحديد الفني خليطة ، ويقال لعجد السيف "أفصل" أما هذه فيقال له "فلية" وجمعها فلي. ومثل العصر الجاهلي تم إتقان صناعة السيف، وعمل أصحاب حرفة صناعة السيوف على توشيتها وتحليتها بالذهب والفضة.

١٢ : معنى كلمة "حليت الحد" في الفقرة السابقة:

أ	أرادا الحديد	ب	الحديد المخلط بشوائب
ج	الحديد الثمين	د	الحديد المشبب للأذى

١٣ : العلاقة بين الحد والنصل هي:

أ	الحد جزء من النصل	ب	النصل جزء من الحد
ج	الحد يطابق النصل	د	الحد لا يطابق النصل

١٤ : أي مما يلي أصح كما ورد في النص:

أ	كل حديد فولاذ	ب	كل فولاذ حديد
ج	الفولاذ حديد مصنع	د	الفولاذ يحتوي على الحديد

التناظر اللفظي

في بداية كل سؤال ثلاثة كلمات، كلمتان ترتبطان بعلاقة معينة، تتبعهما أربعة أزواج من الكلمات، واحد منها ترتبط فيه الكلمتان بعلاقة مشابهة للعلاقة بين الكلمتين في بداية السؤال. المطلوب هو: اختيار الإجابة الصحيحة ، ثم تظليل دائرة الحرف المقابل لها في ورقة الإجابة.

١٥ : عقد : أرض :: مطر : ؟

أ	ملعب : مدرجات	ب	أشجار : ثمار
ج	سور : بيت	د		

إكمال الجمل

تأتي كل جملة من الجُمل الآتية أربعة اختيارات، أحدها يُكمل الفراغ أو الفراغات في الجملة إكمالاً صحيحاً. المطلوب هو: اختيار الإجابة الصحيحة ، ثم تظليل دائرة الحرف المقابل لها في ورقة الإجابة.

١٦ : ..... مجهوداً أقل من مجهود غير المدخنين في المجتمع وفي عملهم اليومي بسبب أمراضهم.

أ	يبذلون – خدمة	ب	يعملون – تهمة
ج	يأجرون – تخلف	د	يستهلكون – تطور

MHTWYAT.COM

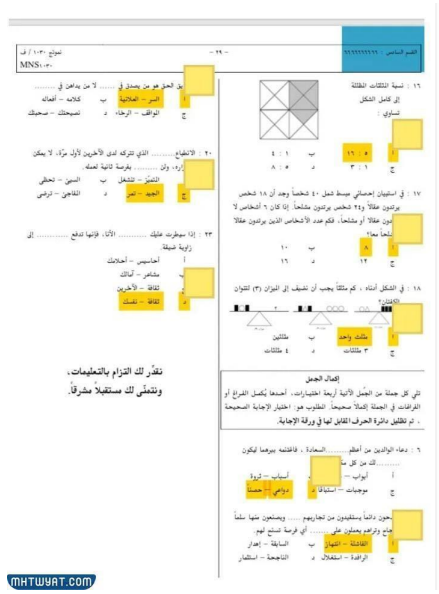

١٦ : نسبة المثلثات المظللة إلى كامل الشكل تساوي :

أ	٤ : ١٦	ب	١ : ٤
ج	١ : ٣	د	٣ : ٨

١٧ : في استفتاء إحصائي ضبط شمل ٤٠ شخصاً وجد أن ١٨ شخص يرتدون عقلاً و٢٤ شخص يرتدون منشماً. إذا كان ٦ أشخاص لا يرتدون عقلاً أو منشماً، فكم عدد الأشخاص الذين يرتدون عقلاً ومنشماً معاً؟

أ	٨	ب	١٠
ج	١٢	د	١٦

١٨ : في الشكل أدناه ، كم مثلثاً يجب أن تضيف إلى الميزان (٣) لتتوازن

أ	مثلث واحد	ب	مثلثين
ج	٣ مثلثات	د	٤ مثلثات

إكمال الجمل

تأتي كل جملة من الجُمل الآتية أربعة اختيارات، أحدها يُكمل الفراغ أو الفراغات في الجملة إكمالاً صحيحاً. المطلوب هو: اختيار الإجابة الصحيحة ، ثم تظليل دائرة الحرف المقابل لها في ورقة الإجابة.

٦ : دعاء الوالدين من أعظم ..... السعادة ، فاحفظه ببرهما ليكون .....

أ	..... لك من كل مكروه	ب	أسباب – ثروة
ج	موجبات – استقرار	د	دواعي – حصنة

٧ : يعيش دائماً يستفيدون من تجاربهم ..... ويصنعون منها سلماً ..... أي فرصة تسنح لهم.

أ	الفاشلة – النهار	ب	السابقة – إهدار
ج	الرائدة – استغلال	د	الناجحة – استثمار

نقدّر لك التزام بالتعليمات، ونتمنّى لك مستقبلاً مشرقاً.

MHTWYAT.COM



١٩ : إذا كان ثمن ٣ أقلام ومقلمة ٩ ريال و سعر ٣ أقلام و دفتر ١٢ ريال.

المطلوب هو، المقارنة بين:

القيمة الأولى	القيمة الثانية
سعر الدفتر	سعر المقلمة

أ	القيمة الأولى أكبر من الثانية
ب	القيمة الثانية أكبر من الأولى
ج	القيمتان متساويتان
د	المعطيات غير كافية

٢٠ : عمر محمد خمس أضعاف عمر وليد وعمر خالد ربع عمر محمد.

المطلوب هو، المقارنة بين:

القيمة الأولى	القيمة الثانية
عمر وليد	عمر خالد

أ	القيمة الأولى أكبر من الثانية
ب	القيمة الثانية أكبر من الأولى
ج	القيمتان متساويتان
د	المعطيات غير كافية

٢١ : إذا كان ل ١ يوازي ل ٢. **المطلوب هو،**

المقارنة بين:

القيمة الأولى	القيمة الثانية
١٥٠ – الزاوية ج	١٠٠

أ	القيمة الأولى أكبر من الثانية
ب	القيمة الثانية أكبر من الأولى
ج	القيمتان متساويتان
د	المعطيات غير كافية

٢٢ : راتب أحمد في الشركة بقدراه ١٢٠٠٠ ريال ، وعرض عليه عرض وذلك بأن يزداد في كل سنة ١٠٪ من الراتب أو يزداد كل سنة بمقدار ١٠٠٠ ريال. **المطلوب هو، المقارنة بين:**

القيمة الأولى	القيمة الثانية
العرض الأول بعد مرور ٣ سنوات	العرض الثاني بعد مرور ٣ سنوات

أ	القيمة الأولى أكبر من الثانية
ب	القيمة الثانية أكبر من الأولى
ج	القيمتان متساويتان
د	المعطيات غير كافية

انتهى القسم!

ويمكنك فيما تبقى من وقتك مراجعة إجاباتك فيه فقط.

MHTWYAT.COM